بسم الله الرحمن الرحيم

إدارة الامتحانات والاختبارات
قسم الامتحانات العامة

ARM3

امتحان شهادة الدراسة الثانوية العامة لعام ٢٠٠٨ / الدورة الصيفية

وثيقة محمية
[محدود]

المبحث : الرياضيات/المستوى الثالث — مدة الامتحان : ٣٠ د : ١ س
الفرع : الأدبي والشرعي والإدارة المعلوماتية(المسار ١) والتعليم الصحي — اليوم والتاريخ : السبت ٢٠٠٨/٦/٢٨

ملحوظة : أجب عن الأسئلة الآتية جميعها وعددها (٥)، علماً بأن عدد الصفحات (٣).

السؤال الأول : (١٦ علامة)

يتكون هذا السؤال من (٨) فقرات، لكل فقرة أربعة بدائل، واحد منها فقط صحيح. انقل إلى دفتر إجابتك رقم الفقرة ورمز الإجابة الصحيحة لها :

١) إذا كان الاقتران ق (س) = ٣ + ٢ $\sqrt{س}$ ، فإن قَ (١) تساوي :

أ) $\frac{٥}{٢}$ ب) ١ ج) $\frac{٧}{٢}$ د) ٥

٢) إذا كان ل عدداً ثابتاً وكانت $\lim_{س \to ٢}$ (س + ل) = ٦ ، فما قيمة الثابت ل ؟

أ) ٨ ب) ٦ ج) ٤ د) ٣

٣) $\lim_{س \to \infty}$ (٢ س^{٣} – ٣ س^{٢} – ١) تساوي :

أ) ∞ ب) – ∞ ج) –٣ د) صفر

٤) إذا كان اقتران الإيراد الكلي لبيع س وحدة من منتج ما يُعطى بالعلاقة د (س) = ٦٠ س – ٢ س^{٢}
فإن الإيراد الحدي عندما س = ١٠ يساوي :

أ) ٢٠ ب) ٣٠ ج) ٤٠ د) ١٥

٥) $\lim_{س \to -١}$ (س^{٣} – ٢)^{٢} تساوي :

أ) –٦ ب) –٣ ج) ١ د) ٩

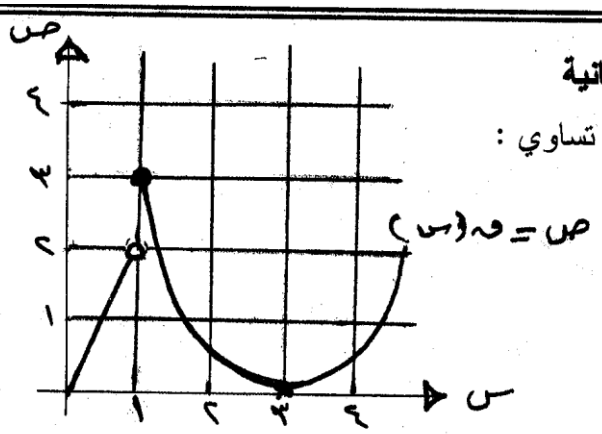
٦) إذا كان الاقتران ق (س) = ١ – س^{٢} ، فإن الاقتران ق يكون متزايداً في الفترة :

أ) [٠ ، ∞) ب) [–١ ، ١] ج) (–∞ ، ٠] د) [٠ ، ١]

٧) إذا كان ق (١) = ٢ ، هـ (١) = ٣ ، قَ (١) = –٢ ، هَ (١) = ١ ، فإن (ق × هـ)َ (١) يساوي :

أ) –٨ ب) –٤ ج) ٤ د) ٨

يتبع الصفحة الثانية ...



٨) بالاعتماد على الشكل المجاور فإن نهـــــا ق (س) تساوي :
س ← ١+

أ) صفر ب) ١

ج) ٢ د) ٣

السـؤال الثاني : (١٦ علامة)

أ) جـد المشتقة الأولى للاقتران ق حيث ق (س) = ٣ س + ١ باستخدام التعريف العام للمشتقة. (٤ علامات)

ب) جـد نهـــــا $\frac{\sqrt{س + ١} - ١}{س}$ (٥ علامات)
س ← ٠

ج) إذا كان الاقتران ق (س) = ل (س) + د (س) حيث :

الاقتران ل (س) = ٢ س + ٥

الاقتران د (س) = $\begin{cases} س^{٢} - ٥ & ، \quad س \geq ٣ \\ س + ١ & ، \quad س < ٣ \end{cases}$

ابحث في اتصال الاقتران ق (س) عندما س = ٣ . (٧ علامات)

السـؤال الثالث : (١٦ علامة)

أ) جـد المشتقة الأولى لكل مما يأتي :

١) ق (س) = لـو$_{هـ}$ (س^{٢} + ٢ س + ٣) + هـ$^{س^{٢} - ٤}$ (٣ علامات)

٢) ق (س) = ظـا^{٢} ٤ س + جـتـا س (٤ علامات)

ب) إذا كان الاقتران ق (س) = $\begin{cases} س^{٢} - ٢ & ، \quad ١ \geq س \geq ٣ \\ ٢ س + ١ & ، \quad ٣ < س \geq ٥ \end{cases}$

فجـد متوسط التغير في الاقتران ق عندما تتغير س من ٢ إلى ٥ . (٤ علامات)

ج) إذا كانت ص = ع^{٢} + ٣ ع ، ع = ٣ – ٢ س^{٢}

فجـد $\frac{د ص}{د س}$ عندما س = –١ . (٥ علامات)

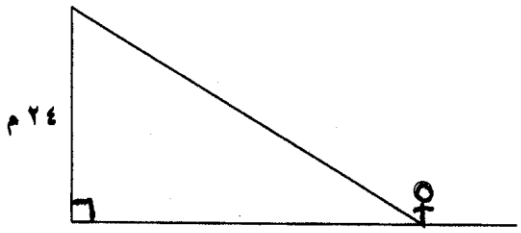
يتبع الصفحة الثالثة ...

السـؤال الرابع : (١٨ علامة)

أ) جـد معادلة المماس لمنحنى العلاقة ص^{٢} = ٤٥ – ٢٠ س عند النقطة (١ ، ٥) . (٦ علامات)

ب) يتحرك جسـيم على خط مسـتقيم وفق العلاقة ف (ن) = ن^{٣} – ٣ ن + ١٥
حيث ف المسافة بالأمتار ، ن الزمن بالثواني . جـد تسارع هذا الجسيم عندما
تصبح سرعته ٩ م/ث . (٦ علامات)

ج) يسير رجل بمعدل ٥ م/ث نحو قاعدة برج ارتفاعه ٢٤ متراً. أوجد سرعة
اقتراب الرجل من قمة البرج عندما يكون على بُعد ٣٢ متراً من قاعدة البرج. (٦ علامات)



السـؤال الخامس : (١٤ علامة)

أ) إذا كان الاقتران ق (س) = س^{٣} – ٣ س + ١ ، فأوجـد القيم الصغرى
والعظمى للاقتران ق . (٧ علامات)

ب) لدى مزارع (٥٠٠) متر من الأسلاك الشائكة، إذا أراد المزارع تسييج قطعة أرض مستطيلة الشكل.
ما بُعدا قطعة الأرض المستطيلة اللذان يجعلان مساحتها أكبر ما يمكن ؟ (٧ علامات)

(انتهت الأسئلة)

بسم الله الرحمن الرحيم

امتحان شهادة الدراسة الثانوية العامة لعام ٢٠٠٨ (الدورة الصيفية).

صفحة رقم (١)

إدارة الامتحانات والاختبارات
قسم الامتحانات العامة

المبحث : الرياضيات / المستوى الثالث — مدة الامتحان : ٣٠ د — ١ س
الفرع : الأدبي والشرعي والإدارة المعلوماتية (م١/٢) والتعليم الصحي — التاريخ : ٢٨ / ٦ / ٢٠٠٨

الإجابة النموذجية : — رقم الصفحة في الكتاب

السؤال الأول : (١٦ علامة)

« لكل فقرة علامتان »

رقم الفقرة	١	٢	٣	٤	٥	٦	٧	٨	
رمز الإجابة	ب	جـ	أ	أ	د	جـ	ب	د	
الإجابة	١	٤	∞	٠	٩	$[0,\infty)$	-٤	٣	

السؤال الثاني : (١٦ علامة)

٤) أ) $ق(س) = ٣س + ١$

$ق'(س) = \lim_{ه \to ٠} \frac{ق(س+ه) - ق(س)}{ه}$ — ١

$= \lim_{ه \to ٠} \frac{٣(س+ه)+١) - (٣س+١)}{ه}$ — ١

$= \lim_{ه \to ٠} \frac{٣س + ٣ه + ١ - ٣س - ١}{ه}$ — ١

$= \lim_{ه \to ٠} \frac{٣ه}{ه} = \lim_{ه \to ٠} ٣ = ٣$ — ١

٥) ب) $\lim_{س \to ٠} \frac{\sqrt{س+١} - ١}{س} = \lim_{س \to ٠} \frac{\sqrt{س+١} - ١}{س} \times \frac{\sqrt{س+١} + ١}{\sqrt{س+١} + ١}$ — ٢

$= \lim_{س \to ٠} \frac{(س+١) - ١}{س(\sqrt{س+١} + ١)} = \lim_{س \to ٠} \frac{س}{س(\sqrt{س+١} + ١)}$ — ١

$= \lim_{س \to ٠} \frac{١}{\sqrt{س+١} + ١}$ — ١

$= \frac{١}{٢}$ — ١

يتبع ص ٢

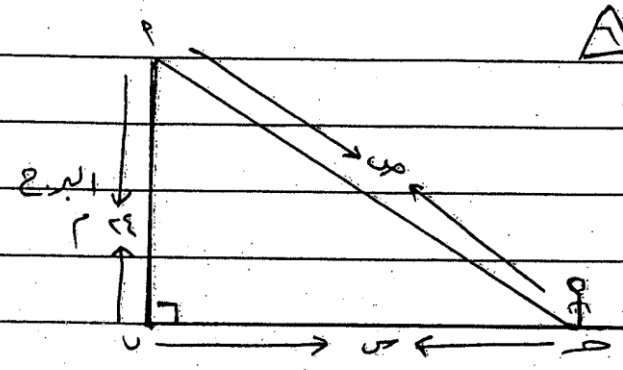
رقم الصفحة في الكتاب	
	س٤ / فرع ٥ ⚠ (٧) :
	هـ(س) = ل(س) + د(س)
(١)	ل(س) معرّف عند س = ٣ حيث ل(٣) = ٢×٣+٥ = ١١
	∴ ل(س) متصل عند س = ٣ (كثير حدود)
½	$\lim_{س \to ٣^-}$ د(س) = $\lim_{س \to ٣^-}$ (س٢ - ٥) = ٩ - ٥ = ٤
½	$\lim_{س \to ٣^+}$ د(س) = $\lim_{س \to ٣^+}$ (س+١) = ٣+١ = ٤
½	∴ $\lim_{س \to ٣}$ د(س) = ٤ لأن $\lim_{س \to ٣^-}$ د(س) = $\lim_{س \to ٣^+}$ د(س)
½	د(٣) = ٩ - ٥ = ٤
½	∴ د(س) متصل عند س = ٣ لأن $\lim_{س \to ٣}$ د(س) = د(٣)
½	مما سبق كل من ل ، د متصل عند س = ٣ ⇐ مجموعهما متصل عند س = ٣ ∴ هـ(س) متصل عند س = ٣
	* إذا جمع الاستنتاج ما يأتي
	① $\lim_{س \to ٣^+}$ هـ(س)
	② $\lim_{س \to ٣^-}$ هـ(س)
	③ هـ(٣)
	④ الحكم
	يتبع ص ٣

	رقم الصفحة في الكتاب
السؤال الثالث (١٦ علامة)	
٣ أ) جد المشتقة الاولى لكل مما يأتي :	
١) $هـ(س) = لو_{هـ}(س^{٤} + ٣س^{٢} + ٥)$ ①	
$هـ'(س) = \frac{٤س^{٣} + ٦س}{س^{٤} + ٣س^{٢} + ٥}$ ① ①	
٤ ٢) $هـ(س) = ظا^{٤} س + جتا س$	
$هـ'(س) = ٤ ظا^{٣} س \times قا^{٢} س \times ٤ - جا س$ ① ① ① ①	
٤ ب) متوسط التغير للاقتران هـ $= \frac{\Delta ص}{\Delta س}$	١/
$\Delta ص = هـ(٥) - هـ(٢)$	١/
$= (٢ \times ٥ + ١) - (٥^{٢} - ٢)$	
$= ١١ - ٢ = ٩$	
$\Delta س = ٥ - ٢ = ٣$	١/
$\frac{\Delta ص}{\Delta س} = \frac{٩}{٣} = ٣$	١/
٥ جـ) $\frac{د ص}{د س} = \frac{د ص}{د ع} \times \frac{د ع}{د س}$	١/
$= (٣ + ٤ع^{٢}) \times (-٤س)$	٢/
$= (٣ + ٤(٣س - ٢س^{٢})^{٢}) \times (-٤س)$	١/
$\frac{د ص}{د س}\Big|_{س=-١} = (٣ + ٤(-٣ - ٢)^{٢}) \times (-٤ \times -١)$	١/
$= ٤ \times (٣ + ٤(-٥)^{٢})$	
$= ٤ \times (٣ + ١ \times ٢٥) = ٤ \times ٢٨ = ١١٢$	
يتبع ص ٤	

رقم الصفحة في الكتاب	
	السؤال الرابع (١٨ علامة)
	أ) م : ص = ٤٥ - ٠,٥ س ، النقطة (١،٥)
	① $\frac{ص}{س}$ = -٠,٥ ① (باشتقاق كل طرف علامة)
	$\frac{ص}{س}$ = $\frac{-٠,٥}{ص}$ = $\frac{-١}{٥}$ ①
½	ميل لـ س = $\frac{ص}{س}$ | (١،٥) = $\frac{-١}{٥}$ = -٠,٢
½	معادلة المماس هي : ص - ص١ = م (س - س١)
½	ص - ٥ = -٠,٢ (س - ١)
	ص - ٥ = -٠,٢ س + ٠,٢
	ص = -٠,٢ س + ٥,٢
	ص = ٧ - ٠,٢ س
	ب)
	ف (ن) = ن^{٣} - ٣ن^{٢} + ١٥ ①
	السرعة ع (ن) = ف' (ن) = ٣ن^{٢} - ٦ن ①
	عندما تكون السرعة = ٩ م/ث فإن
½	٣ن^{٢} - ٦ن = ٩
	٣ن^{٢} = ١٢
½	ن^{٢} = $\frac{١٢}{٣}$ = ٤ ⇐ ن = ± ٢
	ن = -٢ تهمل
½	التسارع ت (ن) = ع' (ن) = ٦ن
½	ت | = ٦ × ٢ = ١٢ م/ث^{٢}
	ن = ٢
	س٤ / فرع هـ / يتبع ص٥

رقم الصفحة في الكتاب

تابع س ٤ / فرع ب :



نفرض أن بعد الرجل عن قاعدة البرج = س م
وان بعد الرجل عن قمة البرج = ص م

$\frac{ود س}{ود ن} = -١٢٥^\circ$ معدل إقتراب الرجل من قاعدة البرج

$\frac{ود ص}{ود ن}$: معدل إقتراب الرجل من قمة البرج

Δ م ب ع قائم الزاوية في ب .

$ص^2 = س^2 + (٢٤)^2$ (نظرية فيثاغورس) ١

$٢ ص \frac{ود ص}{ود ن} = ٢ س \frac{ود س}{ود ن}$ ١

$\frac{ود ص}{ود ن} = س \times \frac{١}{ص} \times \frac{ود س}{ود ن} = \frac{س}{ص} \times \frac{ود س}{ود ن}$ ١

لكم عندما يكون الرجل على بعد ٣٢ م من قاعدة البرج فإن

$ص^2 = س^2 + (٢٤)^2$

$ص^2 = (٣٢)^2 + (٢٤)^2$

$= ١٠٢٤ + ٥٧٦ = ١٦٠٠$

$ص = ٤٠$ م ١

$\left| \frac{ود ص}{ود ن} \right|_{س=٣٢} = \frac{٣٢}{٤٠} \times (-٥) = -٤ ١٢^\circ$ ١

$ص = \sqrt{(٢٤)^2 + س^2}$

يتبع ص ٦

رقم الصفحة في الكتاب

السؤال الخامس (١٤ علامة)

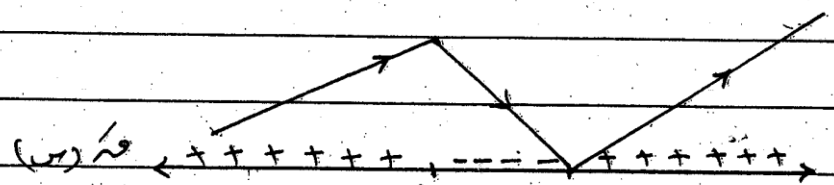
أ) $هـ(س) = س^٣ - ٣س + ١$

$هـ'(س) = ٣س^٢ - ٣$ ½

$هـ'(س) = صفر \Leftarrow ٣س^٢ - ٣ = صفر$ ½

$٣س^٢ = ٣ \Leftarrow س^٢ = ١ \Leftarrow س = \pm ١$ ½

∴ يوجد للاقتران نقط حرجة عندما $س = ١ ، س = -١$



½

من إشارة المشتقة نجد أن للاقتران قيمة عظمى عند $س = -١$

وأن له قيمة صغرى عند $س = ١$

✓ القيمة العظمى $= هـ(-١) = -١ + ٣ + ١ = ٣$ ½

✓ القيمة الصغرى $= هـ(١) = ١ - ٣ + ١ = -١$ ½

ب) نفرض أن طول قطعة الأرض $= س$ م

وأن عرض القطعة يساوي : $ص$ م

الطول + العرض = نصف المحيط

✓ $س + ص = ٥٠ق$ ½

$ص = (٥٠ق - س)$ م

✓ المساحة $م(س) = س \times ص$ ½

$= س \times (٥٠ق - س)$

$= ٥٠ق س - س^٢$

$م'(س) = ٥٠ق - ٢س$ ½

$م'(س) = صفر \Leftarrow ٥٠ق - ٢س = صفر$ ½

$\Leftarrow ٢س = ٥٠ق \Leftarrow س = ١٢٥$ م طول قطعة الأرض ½

عرض القطعة $ص = ٥٠ق - ١٢٥ = ١٢٥$ م ½

$م''(س) = -٢$

$م''(١٢٥) = -٢ <$ صفر ½

∴ تكون المساحة أكبر ما يمكن عندما يكون الطول ١٢٥ م والعرض ١٢٥ م

انتهت الإجابة النموذجية