بسم الله الرحمن الرحيم

مدارس تقارب — اختبار الشهر الأول — الإسم:

الرياضيات العلمي — الشعبه (ج)

السؤال الأول: اختر رمز الإجابه الصحيحه في كل مايلي

① معتمدا" الشكل المجاور الذي يمثل منحنى الدالة $ق(س)$، فإن مجموعة قيم $(أ)$ التي تجعل $\lim_{س \to أ} ق(س) = ٢$ هي

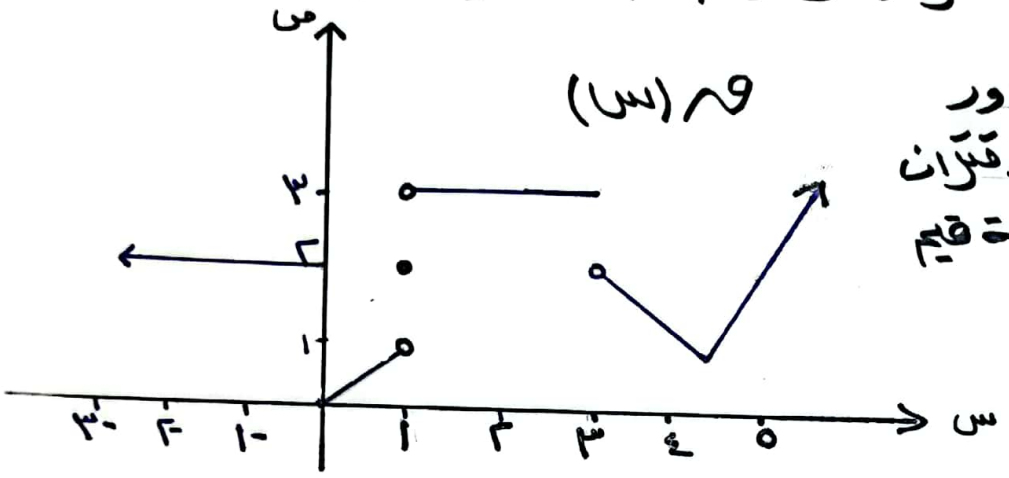

أ) $\{٠، ٥\} \cup (-\infty، ٠)$ ب) $\{٠، ١، ٢، ٥\} \cup [-\infty، ٠)$

ج) $\{٣، ٥\} \cup (-\infty، ٠)$ د) $\{٥\} \cup [-\infty، ٠)$

---

② إذا كان $\lim_{س \to ٢} ق(س) = -٤$ ، $\lim_{س \to ٣} هـ(س) = ٦$ فإن $\lim_{س \to ٥} \frac{(ق(٢س-١) - هـ(س-٢))}{٢}$ تساوي

أ) ٥ ب) -١٢ ج) ٨ د) ١٣

---

③ قيم الثابت $(أ)$ التي تجعل $\lim_{س \to أ} \sqrt{١٦ - س^٢}$ موجوده هي

أ) $(-٥، -٤) \cup [٤، ٥)$ ب) $(-٥، -٤] \cup [٤، ٥)$

ج) $[-٤، ٤)$ د) $(-٤، ٤]$

---

④ قيم الثابت $(أ)$ التي تجعل $\lim_{س \to أ} [\frac{١}{٢}س - ٢] = -١$ هي

أ) $[-١، \frac{-١}{٢}]$ ب) $(-١، \frac{-١}{٢}]$ ج) $(\frac{١}{٢}، \frac{١}{٢}]$ د) $[\frac{١}{٢}، \frac{١}{٢})$

---

⑤ $\lim_{س \to ٣} \frac{\sqrt{٢س^٢ - ٣س + ٩} - ٦}{[\frac{١}{٢}س] + س}$ تساوي

أ) ١ ب) صفر ج) -١ د) غير موجوده

الممسوحة ضوئيا بـ CamScanner

⑥ إذا كان $و(س)$ كثير حدود وكان باقي قسمته على $(س+3)$ يساوي (٢) جـ فيكون $(ا)$ حيث $ا = \lim_{س \to -3} (٤ و(س) + ٢ ا س - ٥) = -٩$

ا) ٢ ب) -٢ جـ) -١ د) ١

⑦ $\lim_{س \to ٣} \frac{(٤)^{س} - ١}{(٢)^{س} + (٢)^{س+١} - ٥}$ تساوي

ا) $\frac{١}{٣}$ ب) $\frac{١}{٢}$ جـ) ٢ د) -٢

⑧ قيم (قيمة) الثابت $(ا)$ التي تجعل $\lim_{س \to ٣} \frac{س^{٣} + ٨}{س^{٣} + ا س^{٢} + ٥ س - ٤}$ غير موجوده هي

ا) -٨ ب) ٣ جـ) $ا = -٣٨$ د) $ا = ٨ ، -٣$

⑨ $\lim_{س \to ٤} \frac{\sqrt{س + [س] + ٢} - س + ١}{س^{٢} + ٣ س - ٤}$ تساوي

ا) $\frac{١}{١٠}$ ب) $\frac{١}{٥}$ جـ) $\frac{٣}{١٠}$ د) $\frac{١}{٢}$

⑩ معتمداً الشكل

$\lim_{س \to -٣} (س و(س) \times هـ(س) + ٣)$

تساوي

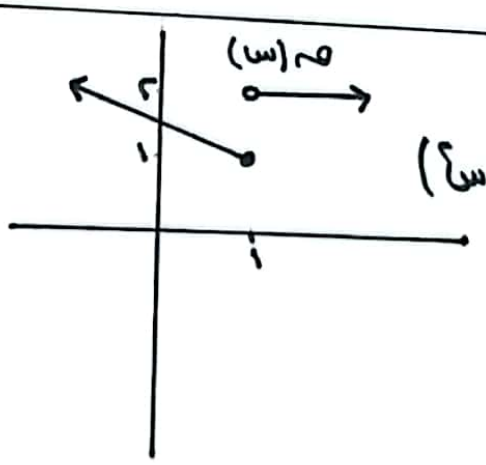

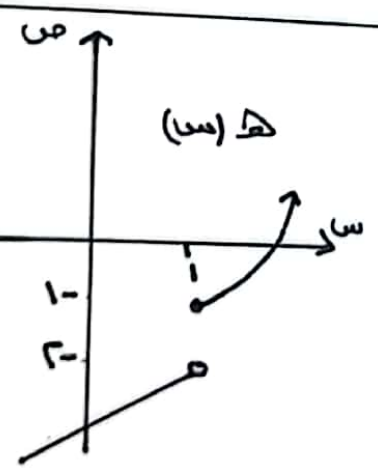

ا) -٢ ب) ٢ جـ) -١ د) غير موجوده

الممسوحة ضوئيا بـ CamScanner

السؤال الثاني

(أ) جد $\lim_{س \to 3}$ $\dfrac{(س-2)^5 - \frac{س^4-64}{(س-2)^2} + 16}{(س+1)^2 - (س-1)^2}$

(ب) إذا كان $ق(س) = \begin{cases} س^2 + 1 & ، \ س \leq -1 \\ أ س^3 + ب س^2 + 2ب & ، \ -1 < س < 3 \\ س + 1 & ، \ س \geq 3 \end{cases}$

فأوجد قيم الثوابت أ ، ب التي تجعل $ق(س)$ موجودة عند $س = -1$ ، $س = 3$

الممسوحة ضوئيا بـ CamScanner